gradeup

केवीएस टीजीटी 2018
प्रश्न पत्र

Prep Smart. Stay Safe.

www.gradeup.co

PART – I (1) GENERAL ENGLISH

Direction: Improve the underlined phrase. If necessary, with the help of given options.

1. If I had not told you, You will not know the truth.
A. You cannot know
B. You would not, be knowing
C. You have known not
D. You would not have known

Direction : Choose the meaning that best suits the following idiom.

2. Be bound up with.
A. be tied to something for long
B. be overwhelmed by
C. be very busy or preoccupied
D. be uninvolved in

Direction : Out of the given alternatives, choose the one which best expresses the meaning of the underlined word.

3. A number of tenants have been evicted for not paying the rent.
A. pardoned
B. sent out
C. excused
D. thrown out

Direction : Complete the sentence given below by choosing the correct form of verb from options that follow.

4. Jim came yesterday. I do not know whether he _____ today.
A. came
B. will be coming
C. will have come
D. shall come

Direction : Improve the underlined phrase, if necessary with the help of given options.

5. George was laid to a rest beside his parents.
A. lied in rest
B. laid to rest
C. lay in rest
D. lied to rest

Direction : Identify the phrase in the following sentence that may be erroneous.

6. The training programme(A) / takes a form of(B) / a series of workshops(C)/ for the LDCS and UDCS(D)
A. A
B. B
C. C
D. D

7. **Direction :** Choose the expression that best describes the word HOODLUM.
A. a neighbour who is rather nosey
B. a way-side hawker
C. a violent criminal
D. a student who hoots and shouts

Direction : Choose the word most nearly opposite in meaning to the given word.

8. DUSKY
A. sharp
B. bright
C. wild
D. near

9. **Direction :** Choose the expression that best describes the word FALLIBLE.
A. able to concoct stories
B. that which can be felled easily
C. able to stitch pieces together
D. apt to make mistakes or go wrong

Direction : Complete the sentence given below by using the correct form of the verb from the options that follow.

10. I do not bother much about money. I _____ about it all my life.
A. have never bothered
B. bothered
C. don't brother
D. will ever bother

भाग – I (2) सामान्य हिंदी

1. जिस संज्ञा से पदार्थ में पाए जाने वाले किसी धर्म का बोध होता है, उसे क्या कहते हैं?
A. व्यक्तिवाचक संज्ञा
B. वस्तुवाचक संज्ञा
C. भाववाचक संज्ञा
D. जातिवाचक संज्ञा

2. निम्नलिखित में से कौन-सा युग्म असंगत है?
A. अन्न - जल
B. आचार - विचार
C. पीना - खाना
D. नोन - तेल

3. '**जलपिपासु**' शब्द में कौन-सा समास है?
A. द्वंद्व

B. द्विगु
C. तत्पुरुष
D. बहुब्रीहि

4. '**एक तो करेला दूजे नीम चढ़ा**' - इस लोकोक्ति के सटीक अर्थ को दिए गए विकल्पों में से चयन कीजिए :
A. करेले की बेल का नीम के वृक्ष पर चढ़ना
B. करेले और नीम का संयोग स्वास्थ्य के लिए हितकर होना
C. करेले और नीम का रस मिलाना
D. एक साथ दो या कई दुर्गुणों का होना

5. 'वाक्यं रसात्मकं काव्यम्' अर्थात् रसात्मक वाक्य ही काव्य है। - काव्यलक्षण के विषय में यह कथन किस आचार्य का है?
A. भामह
B. पंडित राज जगन्नाथ
C. विश्वनाथ
D. मम्मट

6. निम्नलिखित में से कौन-सा शब्द अर्धतत्सम है?
A. आखर
B. अच्छर
C. अक्षर
D. अक्ख

7. निम्नलिखित में से '**कामायनी**' का काव्य रूप क्या माना जाता है?
A. खण्डकाव्य
B. चरित काव्य
C. एकार्थकाव्य
D. महाकाव्य

8 .'**तपोवन**' शब्द में कौन सी संधि है?
A. विसर्ग संधि
B. स्वर-व्यंजन संधि
C. व्यंजन संधि
D. स्वर संधि

9. खड़ी बोली हिन्दी की किस उपभाषा के अंतर्गत आती है?
A. बिहारी हिन्दी
B. पश्चिमी हिन्दी
C. पहाड़ी हिन्दी
D. पूर्वी हिन्दी

10. उस मूल ध्वनि को, जिसके खंड न हो सकें - उसे क्या कहते हैं?
A. शब्द
B. वर्ण
C. प्रत्यय
D. कृदंत

PART – II (1) CURRENT AFFAIRS

1. कोलकाता खेल पत्रकार क्लब के द्वारा हाल ही मेन निम्नलिखित में से किसे "भारत का सर्वश्रेष्ठ खिलाड़ी" नाम दिया गया है?
A. अरुण घोष
B. सफ़ीकी मोंडल
C. अरुण लाल
D. सुनील छेत्री

2. निम्नलिखित में से किस संस्था ने 'विश्व-प्रसन्नता-रिपोर्ट प्रकाशित की?
A. यू.एन.डी.पी.
B. विश्व स्वास्थ्य संघटन (WHO)
C. संयुक्तराष्ट्र संघ
D. विश्व बैंक

3. निम्नलिखित में से पहला स्थान कौन-सा था जहाँ सिन्धु घाटी सभ्यता की खोज हुई थी?
A. अमरी
B. कोटदीजी
C. हड़प्पा
D. मोहेनजोदाडो

4. शेसाचलम् जैवमंडल आरक्षित क्षेत्र (बायोस्फेयर रिजर्व) का कुल क्षेत्रफल कितना है?
A. 3000.6 किमी^{2}
B. 765.6 किमी^{2}
C. 4755.9 किमी^{2}
D. 5520.2 किमी^{2}

5. 'सशक्त' कार्यक्रम की घोषणा भारत सरकार के द्वारा जुलाई 2018 में की गई है?
A. सार्वजनिक क्षेत्र के बैंकों में दबाव में आई परिसंपतियों के समाधान के लिए |
B. ग्रामीण क्षेत्रों में सीमांत किसानों को संस्थागत ऋण उपलब्ध कराने के लिए |
C. ग्रामीण क्षेत्र में महिलाओं के सशक्तिकरण के लिए |
D. विकास की परियोजनाओं में समुदाय की प्रतिभागिता निश्चित करने के लिए |

6. पन्द्रहवे वित्त आयोग का अध्यक्ष कौन है?
A. रमेश चंद
B. एन. के. सिंह
C. वाई. वी. रेड्डी
D. अशोक लाहिरी

7. सूची - I में दिए गए अर्थशास्त्रीयों का मिलान सूची – II में उनसे संबद्ध विकास सिद्धांतों से कीजिए :
सूची – I
(a) पी. सी. महालनोबिस
(b) के. एन. राज
(c) जे. सी. कुमारप्पा
(d) वर्गीस कुरियन
सूची – II
(i) रोजगार सृजन तथा गरीबी उन्मूलन के लिए सहकारिता मॉडल
(ii) कृषि क्षेत्र को सबल बनाना
(iii) द्रुत औघोगीकरण तथा सार्वजनिक क्षेत्र को सबल बनाना
(iv) ग्रामीण औघोगिकरण
A. (a)-(i) ,(b)- (iii),(c)-(iv) ,(d)- (ii)
B. (a)- (iv) ,(b)- (iii) ,(c)- (ii) ,(d)- (i)
C. (a)- (ii) ,(b)- (i) ,(c)- (iv) ,(d)- (iii)
D. (a)- (iii),(b)-(ii) ,(c)- (iv),(d)-(i)

8. कोएपेन की जलवायु वर्गिकरण योजना के अनुसार निम्नलिखित में से विशेषता का संबंध 'शीतोषण' से है?
A. सबसे ठंडे महीने का औसत तापमान 18°C या अधिक होता है |
B. मध्य देशांतरीय मौसमी वर्ष के सबसे ठंडे महीने का औसत तापमान - 3°C से अधिक किंतु 18°C से कम होता है |
C. संभावित वाष्पीकरण संघनन से अधिक हो जाता है |
D. सभी महीनों का औसत तापमान 10°C कम होता है |

9. रूस के स्टेपी क्षेत्र में निम्नलिखित में से कौन से मूल निवासी रहते हैं?
A. ट्रवैरेग
B. किरगिज
C. बुशमैन
D. मसाई

10. 2015 में स्थापित हरित राष्ट्रीय लेखाकरण (GNA) योजना को रूप देने वाली विशेषज्ञ समिति के अध्यक्ष कौन थे?
A. पार्थ दासगुप्ता
B. अमर्त्य सेन
C. कौशिक बासु
D. अशोक गुलाटी

11. सूची – II में दिए गए नीति निर्देशक सिद्धांतों का मिलान सूची – I में दिए गए भारतीय संविधान के अनुच्छेदों से कीजिए :

सूची – I	सूची – II
(a) अनुच्छेद 41	(i) न्यायपालिका को कार्य पालिका से पृथक करना
(b) अनुच्छे 39A	(ii) काम का अधिकार
(c) अनुच्छेद 42	(iii) काम करने के लिए न्यायोचित और मानवी स्थितियाँ तथा मातृत्व राहत
(d) अनुच्छे 50	(iv) समान न्याय तथा नि: शुल्क कानूनी सहायता

A. (a)-(ii),(b)-(iv),(c)-(iii),(d)-(i)
B. (a)-(i),(b)-(ii),(c)-(iii) ,(d)-(iv)
C. (a)-(ii),(b)-(i),(c)-(iii) ,(d)-(iv)
D. (a)-(iv),(b)-(ii),(c)-(i) ,(d)-(iii)

12. निम्नलिखित में से किस स्थान पर समुद्र सतह से नीचे धान की खेती का काम किया जा रहा है?
A. तंजावूर
B. कुट्टनाड
C. मंगलोर
D. जीरो वैली

13. 973 में निम्न किस भौगोलिक क्षेत्र में अल बिरुनी का जन्म हुआ?
A. ताजीकिस्तान
B. उज़्बेकिस्तान
C. तुर्कमेनिस्तान
D. अफगानिस्तान

14. निम्नलिखित में से जलवायु का वह कौन-सा रूप है जिसे हिमालय, एंडीस और एल्पस के पर्वतीय क्षेत्रों में अनुभव किया जाता है?
A. ध्रुवीय जलवायु
B. उच्चभूमि जलवायु
C. उष्णकटिबंधीय जलवायु
D. आर्द्र न्यूनतापीय जलवायु

15. भारतीय नियोजन का निर्माता किसे माना जाता है?
A. सुख मोय चक्रवर्ती
B. पी. सी. महालानोबिस
C. के. एन. राज
D. जॉन मथाई

16. निम्नलिखित में से किसका संबंध स्थानिक प्रजाति (एंडेमिक स्पिसीज) से है?
A. वे प्रजातियाँ जो अपने ज्ञात अथवा संभावित क्षेत्र में ढूँढने पर नहीं प्राप्त होती |
B. वे प्रजातियाँ जिनकी आबादी छोटी हो और यदि उन्हें प्रभावित करने वाले निषेधात्मक कारक बने रहे तो उनके संकटापन्न/असुरक्षित कोटि में जाने की संभावना हो |
C. वे प्रजातियाँ जो केवल किसी विशिष्ट क्षेत्रों में पाई जाती हैं सामान्यत: प्राकृतिक या भौगोलिक रुकावटों के कारण अलग-थलग होते हैं |
D. वे प्रजातियाँ जिनकी आबादी में उस सीमा तक ह्रास हुआ जहाँ वे निकट भविष्य में संकटापणन कोटि में पहुँच सकती हैं यदि निषेधात्मक कारक बने रहे |

17. निम्नलिखित घटना का सही कालक्रम क्या है?
(a) खिलाफत आंदोलन
(b) जलियाँवाला बाग जनसंहार
(c) बारदोली का किसान आंदोलन
(d) रॉलेट सत्याग्रह
कूट :
A. (a), (b), (c), (d)
B. (a), (d), (b), (c)
C. (d), (b), (a), (e)
D. (d), (c) (a), (b)

18. निम्नलिखित में से क्या भारत के संविधान के भाग III का अंग नहीं है?
A. न्यायपालिका को कार्यपालिका से पृथक करना |
B. किसी भी व्यक्ति को, जो किसी भी अपराध का अभियुक्त हो, अपने ही विरुद्ध गवाही देने के लिए बाध्य नहीं किया जाएगा |
C. कोई भी व्यक्ति एक ही अपराध के लिए एक बार से अधिक दंडित नहीं किया जाएगा |
D. कुछ मामलों में गिरफ्तारी तथा कैद होने से बचाव |

19. निम्नलिखित में से कौन-सा दिन 'विश्व सामाजिक न्याय दिवस' के रूप में मनाया गया?
A. मार्च 20, 2018
B. फरवरी 20, 2018
C. जनवरी 20, 2018
D. सितम्बर 20, 2018

20. 'भीमा' निम्नलिखित में से किसकी सहायक नदी है?
A. कृष्णा
B. महानदी
C. कावेरी
D. गोदावरी

21. लोकसभा में अविश्वास प्रस्ताव को प्रस्तुत करने के लिए वांछित न्यूनतम सदस्य संख्या क्या है?
A. 75 सदस्य
B. 100 सदस्य

C. 50 सदस्य
D. 150 सदस्य

22. निम्नलिखित में से कौन से गैस की वैश्विक तापवृद्धि (ग्लोबल वार्मिंग) की सामथर्य अधिक है?
A. कार्बन डाइऑक्साइड (CO_2)
B. नाइट्रस ऑक्साइड (N_2O)
C. मिथेन (CH_4)
D. सल्फर हेक्साफ्लुओराइड (SF_6)

23. मुगल दरबार में जिस सुलेखकार को 'सुनहरी कलम' उपाधि से पुरस्कृत किया जाता था वह किस नाम से जाना जाता था?
A. अम्बारीन कलम
B. शीरीन कलम
C. रोशन कलम
D. कमतारीन कलम

24. सह-अंशदायी पेंशन योजना 'स्वावलंबन' की घोषणा केंद्र सरकार द्वारा की गई :
A. संघीय बजट 2008 -09
B. संघीय बजट 2015 - 16
C. संघीय बजट 2010- 11
D. संघीय बजट 2016 – 17

25. 2030 तक प्राप्त कर लिए जाने वाले धारणीय (सस्टेनेबल) विकास के लक्ष्य का भाग नहीं है :
A. सभी लड़कों और लड़कियों के लिए प्राइमरी तथा सेकेंडरी की नि:शुल्क शिक्षा |
B. गुणवत्तापूर्ण उच्च शिक्षा तक सार्वजनिक पहुँच |
C. सहजता से प्राप्त व्यावसायिक प्रशिक्षण तक समान पहुँच |
D. सबके लिए नि:शुल्क उच्च शिक्षा |

26. निम्नलिखित में से किस कानून के अंतर्गत पुलिस अधिकारी के समक्ष सह-अभियुक्त द्वारा अपराध स्वीकृति को अभियुक्त के विरुद्ध सबूत के रूप में माना गया है?
A. आपस्पा, 1958
B. पोटा, 2002
C. यू.ए.पी.ए., 1967
D. टाडा, 1985

27. निम्नलिखित में से कौन से निक्षेप 'अंडों की टोकरी' (बास्केट ऑफ एग्स) स्थलाकृति का निर्माण करते हैं?
A. हिमानी धौत मैदान
B. नदी निक्षेप
C. ड्रमलिन
D. हिमानी निक्षेप

28. सूची–I को सूची–II से सुमेलित कीजिए एवं नीचे दिए गए कूट से सही उत्तर का चयन कीजिए :

सूची–I (बुद्ध के जीवन की घटनाएँ)	सूची – II (प्रतिकात्मक अभिव्यक्ति)
(a) जन्म	(i) बोधि वृक्ष
(b) संबोधि	(ii) चक्र
(c) प्रथम उपदेश	(iii) गज
(d) परिनिर्वाण	(iv) स्तूप

A. (a)-(iv) ,(b)-(ii),(c)-(i),(d)-(iii)
B. (a)-(iii) ,(b)-(i),(c)-(ii),(d)-(iv)
C. (a)-(iii) ,(b)-(iv),(c)-(ii),(d)-(i)
D. (a)-(ii),(b)-(i) ,(c)-(iii),(d)-(iv)

29. 2018 के एकेडमी पुरस्कारों में सर्वश्रेष्ठ फिल्म का 'आस्कर' निम्नलिखित में से किसे प्राप्त हुआ?
A. डंकिर्क
B. ऑल द मनी इन द वर्ल्ड
C. डार्केस्ट आवर
D. द शेप ऑफ वाटर

30. पंचायत का कार्यकाल होता है :
A. परिणाम घोषित होने की तिथि से पाँच वर्ष
B. चुनाव की घोषणा की तिथि से पाँच वर्ष
C. प्रथम बैठक के लिए निर्धारित तिथि से पाँच वर्ष
D. पिछली पंचायत के विघटन की तिथि से पाँच वर्ष

31. 2018 में प्रकाशित उपन्यास 'दि वुमन इन दि विंडो' का लेखक कौन है?
A. क्रिशीन हन्ना
B. लॉरा मार्शेल
C. ए.जे. फिन
D. तारा वेस्टोवर

32. की-स्टोन प्रजातियाँ हैं :
A. पर्यावरण के साथ संतुलित अवस्था में कोई समुदाय |
B. वे प्रजातियाँ जिनका अपने समुदाय की ऊर्जा प्रवाह तथा संरचना पर महत्वपूर्ण प्रभाव पड़ता है |
C. वह प्रजाति (स्पिशीज़) जो अपने समुदाय को संरचना, संशोधन या भौतिक आवास को अपने लिए तथा अन्य प्रजाति के लिए प्रभावित करती है |
D. वे प्रजातियाँ जो किसे ऐसे क्षेत्र में वास के लिए आती है जहाँ पहले कोई जीवन नहीं था |

33. जब लंबे समय तक अपर्याप्त वर्षा हो जिसमें समय और स्थान के अनुसार उसका वितरण भी ठीक न हो, तो उसे कहा जाता है :
A. कृषि सूखा
B. मौसमविज्ञान संबंधी सूखा
C. जलविज्ञान संबंधी सूखा
D. पारिस्थितिक सूखा

34. भारत के किस राज्य ने 'आहार' योजना की शुरुआत की जो शहरी गरीबों को सस्ता भोजन उपलब्ध कराती है?
A. दिल्ली
B. राजस्थान
C. ओडिशा
D. उत्तर प्रदेश

35. सूची– I तथा सूची– II का मिलान कीजिए और नीचे दिए गए कुटो (कोड) का उपयोग कर सही उत्तर चुनिए :

सूची – I	सूची– II
(a) जहाज़ महल	(i) तमिलनाडु
(b) अंग महल	(ii) पश्चिम बंगाल
(c) राइटर्स बिल्डिंग	(iii) मध्य प्रदेश
(d) सेंट जॉर्ज का किला	(iv) नागालैंड

A. (a)-(ii),(b)-(iii),(c)-(iv) ,(d)- (i)
B. (a)- (iv),(b)-(iii) ,(c)- (i) ,(d)- (ii)
C. (a)- (iii),(b)-(iv) ,(c)- (ii) ,(d)-(i)
D. (a)- (ii),(b)-(iii) ,(c)- (i),(d)-(iv)

36. चिदम्बरम का चोल मन्दिर किस धार्मिक समूह से संबन्धित है?
A. अल्वार
B. जैन
C. नयनार
D. वैदिक

37.2018 के एशियन खेलों की पुरुष शॉट पुट प्रतियोगिता में स्वर्ण पदक जीता :
A. मुहम्मद अनस याह्या
B. नीरज चोपड़ा
C. तेजिंदर पाल सिंह तूर
D. धारुन अय्यासामी

38. किसानों के द्वारा ऊर्जा उत्पादन को प्रोत्साहित करने के लिए सूर्यशक्ति किसान योजना (SKY) किस राज्य सरकार द्वारा की गई पहल है?
A. मध्य प्रदेश
B. उत्तर प्रदेश
C. राजस्थान
D. गुजरात

39. निम्नलिखित में से कौन-सी महिला-टिम विश्व टेबल टेनिस चैम्पियनशिप, 2018 की विजेता थी?
A. भारत
B. रूस
C. चीन
D. जापान

40. भारत में ताजा पानी का सबसे बड़ा झील है :
A. लडोगा
B. मलावी
C. रैंडियर
D. वूलर

PART – II (2) REASONING ABILITY

1. किसी कूट भाषा में शब्द 'TRIP' को कूट 'QJSU' द्वारा दर्शाया गया है | कूट 'LSPD' का संगत शब्द है :
A. ROCK
B. CORK
C. PORK
D. RUCK

2. उस उत्तर आकृति को चुनिये जिसमें प्रश्न आकृति सन्निहित/छिपी हुई है |

प्रश्न आकृति :

उत्तर आकृति :

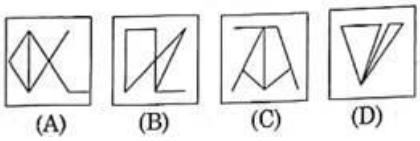

A. (A)
B. (B)
C. (C)
D. (D)

3. अभिकथन के नीचे विकल्प के रूप में चार निष्कर्ष दिए गए हैं अपनी और से कोई विश्लेषण किए बगैर अभिकथन को अनुसरण करने वाले निष्कर्ष का चयन कीजिए |

अभिकथन : उस दुकान में अधिकांश खिलौने महँगे हैं |

निष्कर्ष :

A. उस दुकान में केवल जापानी खिलौने महँगे हैं |

B. उस दुकान में सस्ते खिलौने भी हैं |

C. उस दुकान में कोई सस्ते खिलौने उपलब्ध नहीं है |

D. उस दुकान में कुछ खिलौने महँगे हैं |

4. निम्नलिखित में से सही विकल्प को चुनिये जिससे शृंखला पूरी हो :

CXDW, EVFU, GTHS, IRJQ, ?

A. KPJM
B. KMIN
C. KPLO
D. KQNR

5. शृंखला को पूरा कीजिये

$4, 6, 9, 13\frac{1}{2}, ?$

A. $22\frac{3}{4}$

B. $20\frac{1}{4}$

C. $18\frac{1}{2}$

D. $17\frac{1}{2}$

6. निम्नलिखित में से विषम को चुनिये :

(a) 

(b) 

(c) 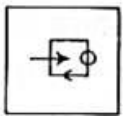

(d) 

A. (a)
B. (b)
C. (c)
D. (d)

7. किसी लड़के की और संकेत करते हुए शशि कहती है, 'वह मेरे दादा की इकलौती संतान का पुत्र है |' उस लड़के का शशि से क्या संबंध है?

A. भाई

B. चचेरा भाई / चचेरी बहन

C. चाचा

D. चाची

8. निम्नलिखित में से किस उत्तर में नीचे दिये गये शब्दों का क्रम शब्दकोश के क्रम के अनुसार है?

(a) Epitaph (b) Epilogue
(c) Epigraph (d) Epithet
(c) Epileptic

कूट :

A. (c), (e), (b), (d), (a)
B. (c), (e), (b), (a), (d)
C. (b), (c), (e), (d), (a)
D. (e), (b), (a), (c), (d)

9. निम्नलिखित अक्षर समूहों में से उस एक समूह को चुनिये जो किसी मामले में अन्य तीन समूहों से भिन्न है |

A. DHLP
B. MQUY
C. JNRV
D. TYDI

10. किसी वर्गाकार कागज को मोड़कर छिद्रित किया गया है | निम्न में से उस आकृति को चुनिये जो बिना मुड़े कागज की स्थिति के काफी सदृश है |

(i) 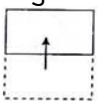

(ii) 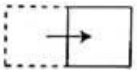

(iii) 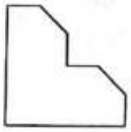

A. 

B. 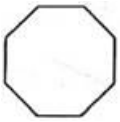

C. 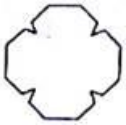

D.

11. उस सही विकल्प को चुनिये जिसका वही संबंध तीसरे पद से है जो संबंध दूसरे पद का पहले पद से है :

KCA : HBE : : EBH : ?

A. CBM
B. CGE
C. BCM
D. CBE

12. यदि 84 + 29 = 15 तथा 52 + 16 = 10 हो, तो इसी तर्क के आधार पर 83 + 25 का मान है :

A. 17
B. 13
C. 9
D. 12

13. निम्नलिखित में से सही विकल्प को चुनिये जिससे शृंखला पूरी हो :

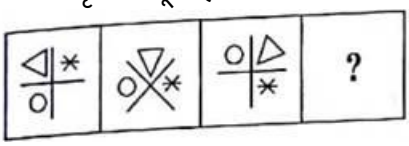

A.

B. 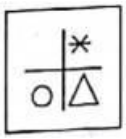

C.

D.

14. चिह्नित उत्तर आकृतियों (A), (B), (C) और (D) में से कौन-सी आकृति मुख्य (दि गयी) आकृति का सही प्रतिबिंब है?

(A)

(B) 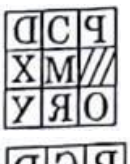

(C) 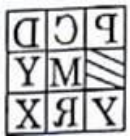

(D) 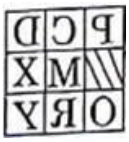

A. (A)
B. (B)
C. (C)
D. (D)

15. भारत के 5 राज्यों में मकके की उपज (लाख टन में) संबंधी निम्न सारणी का अध्ययन कीजिए और इसके नीचे दिये गये प्रश्न का उत्तर दीजिए :

वर्ष / राज्य	2012-13	2013-14	2014-15	2015-16
(A)	23.2	19.6	24.5	26.0
(B)	18.6	18.6	20.6	25.4
(C)	28.4	25.6	26.4	25.8
(D)	20.9	28.6	23.4	27.6
(E)	19.8	20.2	22.4	26.3

किस राज्य में मकके की उपज वर्ष-दर-वर्ष लगातार बढ़ी है?
A. (B)
B. (C)
C. (D)
D. (E)

16. नीचे संख्याओं के चार समूह दिये गये हैं | इनमें से एक समूह अन्य तीन से किसी आधार पर भिन्न है | उस भिन्न समूह को पहचानिये |
A. 12, 24, 48, 36
B. 8, 16, 32, 24
C. 15, 30, 60, 45
D. 9, 18, 45, 27

17. किसी परिवार में चार बहने हैं इनमें से नवनूर मानवी से छोटी पर तोषाणा से बड़ी है | साधिका, तोषाणा से बड़ी पर नवनूर से छोटी है | सबसे बड़ी को सं. 1 आबंटित की गयी है तथा सं. 4 सबसे छोटी को आबंटित की गई है | इनमें से सं. 2 कौन है?
A. तोषाणा
B. साधिका
C. मानवी
D. नवनूर

18. नीचे एक पता दिया गया है | निम्नलिखित से इस पते का हूबहू समानता वाला विकल्प चुनिये :
Mr A . Acharyulu
38 Triplican
Bhubaneshwar - 560065
A. Mr. A Acharyulu
38 Triplican
Bhubaneshwar -560065
B. Mr A . Acharyulu
38 Triplicane
Bhubaneshwar -560065
C. Mr A . Acharyulu
38 Triplican
Bhubaneshwar - 560065
D. Mr A . Acharyulu
38 Triplican
Bhuvneshwar – 560065

19. बॉल की कीमत कितनी है?
अभिकथन (I): हॉकी की स्टिक तथा इसके बॉल की कीमत 650 है |
अभिकथन (II): हॉकी की स्टिक की कीमत इसके बॉल की दुगुनी कीमत से ` 20 अधिक है |
A. केवल अभिकथन (I) में दिये गये आँकड़े प्रश्न के उत्तर के लिये पर्याप्त हैं |
B. केवल अभिकथन (II) में दिये गये आँकड़े प्रश्न के उत्तर के लिये पर्याप्त हैं |
C. दोनों अभिकथनों में दिये गये आँकड़े प्रश्न के उत्तर के लिये अनिवार्य हैं |
D. अभिकथन (I) और (II) में दिये गये आँकड़े प्रश्न के उत्तर के लिये पर्याप्त नहीं है |

20. निम्न में से कौन-सा आरेख चोर, पुलिस तथा अपराधी को निरूपित करता है?
A.
B. 
C.
D.

21. लुप्त संख्या को भरिये :
821 (40) 779
875 (42) 889
? (44) 999
A. 919
B. 929
C. 937
D. 947

22. नीचे आकृतियों के दो समुच्चय हैं | एक प्रश्न आकृति तथा अन्य उत्तर आकृति है | यदि प्रश्न आकृतियों का यह क्रम जारी रहे, तो निम्न में से कौन सी उत्तर आकृति अगली स्थिति का स्थान लेगी?
प्रश्न आकृति :

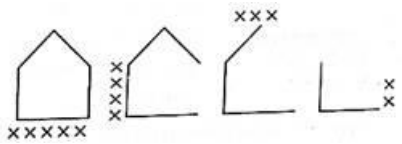

उत्तर आकृति :

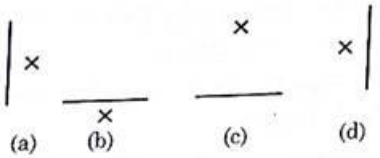

A. (a)
B. (b)
C. (c)
D. (d)

23. किसी घन के सभी फलकों को नीले रंग से रंगा जाता है | इसे काटकर 64 छोटे-छोटे घनों में बाँटा जाता है | अब ये घन अलग-अलग हैं | रंगविहीन फलकों वाले छोटे घनों की संख्या है :
A. 4
B. 8
C. 16
D. 12

24. उस सही विकल्प को चुनिये जिसका वही संबंध तीसरे पद से है जो संबंध दूसरे पद का पहले पद से है :
1 2 3 4 : 24 : : 3 1 5 4 : ?
A. 44
B. 60
C. 35
D. 54

25. जॉर्ज विधालय से पूरब की और 4 किमी. चलता है | वह दायें मुड़ता है तथा 3 किमी. चलता है | वह फिर दायें मुड़ता है और 2 किमी. चलकर अपने घर पहुँच जाता है | जॉर्ज का घर विधालय से किस दिशा में अवस्थित है?
A. दक्षिण-पूर्व
B. पूर्व
C. उत्तर
D. उत्तर-पश्चिम

26. उस सही विकल्प को चुनिये जिसका वही संबंध तीसरे पद है जो संबंध दूसरे पद का पहले पद से है |

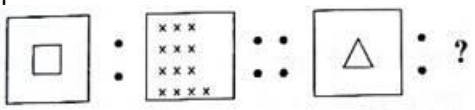

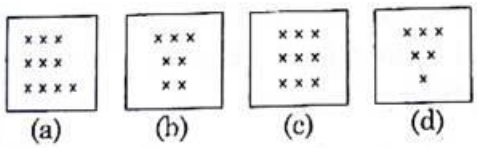

A. (a)
B. (b)
C. (c)
D. (d)

27. पाँच महिलाएँ A, B, C, D, E दक्षिण की और मुँह कर एक पंकित में बैठी हुई हैं पाँच पुरुष L, M, N, O, P उस पंक्ति के समांतर एक पंक्ति में उत्तर की और मुँह कर बैठे हैं |
(i) A तथा L एक दूसरे के विकर्णाभिमुख है |
(ii) M पंक्ति के एक छोर पर है |
(iii) D, E के ठीक बायें तथा O के सामने है |
(iv) P, M के ठीक बायें तथा B के सामने है |
(v) E, N के सामने है जो L के ठीक दायें है |
कौन पुरुष अपनी पंक्ति के मध्य में बैठा है?
A. L
B. O
C. P
D. N

28. किसी पंक्ति में P से 15वें स्थान पर खड़ा है तथा Q अंत से 21वें स्थान पर खड़ा है | P और Q के बीच में R खड़ा है | P और R के बीच 7 विधार्थी हैं जबकि R और Q के बीच 6 विधार्थी हैं | इस पंक्ति में कुल कितने विधार्थी हैं?
A. 48
B. 49
C. 50
D. 51

29. जयति उत्तर की दिशा में 12 किमी. चलकर बाएं मुड़ती है तथा 6 किमी. चलती है; व्हा फिर दायें मुड़ती है और 7 किमी. की दूरी तय करती है | इसके बाद वह दायें मुड़ती है और 6 किमी. चलती है | वह अपने आरंभिक बिंदु से कितनी दूर है?
A. 25 किमी
B. 13 किमी
C. 18 किमी
D. 19 किमी

30. छह वर्ष पूर्व ध्रुव की उम्र उसकी बहन रीमा की उम्र की दुगुनी थी | यदि इन दोनों की वर्तमान उम्र

का अनुपात 4: 3 हो, तो रीमा की वर्तमान उम्र क्या है?
A. 15 वर्ष
B. 12 वर्ष
C. 9 वर्ष
D. 6 वर्ष

31. उस विकल्प को चुनिये जिसका वही संबंध तीसरे पद से है जो संबंध दूसरे पद का पहले पद से है :
टेनिस : कोर्ट : : क्रिकेट : ?
A. रिंग
B. ग्राउंड
C. पिच
D. स्टेडियम

32. दिये गये आव्यूह में आकृतियों का अध्ययन कीजिए तथा उस उत्तर आकृति को चुनिये जो प्रश्न आकृति आव्यूह को पूरा करता हो :
प्रश्न आकृति :



उत्तर आकृति :
A.
B.
C. 
D.

33. निम्नलिखित अभिकथन भले ही सामान्य रूप से ज्ञात तथ्यों के आधार पर असंगत लगते हों, पर उन्हें सही मानकर यह निर्णय कीजिए कि दिये गये अभिकथनों के तर्कपूर्ण अनुसरण में निम्नलिखित में से कौन-सा/से निष्कर्ष सही है/हैं?
अभिकथन :
(A) सभी कलम पुस्तकें हैं |
(B) सभी रबर पुस्तकें हैं |
निष्कर्ष :
(I) कुछ कलम रबर हैं |
(II) कुछ पुस्तकें कलम हैं |
A. केवल निष्कर्ष (I) सही है |
B. केवल निष्कर्ष (II) सही है |
C. निष्कर्ष (I) और (II) दोनों सही हैं |
D. न निष्कर्ष (I) और न निष्कर्ष (II) सही है |

34. निम्न में से उस एक को चुनिये जो अन्य तीन विकल्पों से भिन्न है :
A. कड़ी जोड़ना (लिंक)
B. बंधन में जुड़ना (बॉण्ड)
C. कँटिया लगाना (हुक)
D. संबद्ध करना (कनेक्ट)

35. किसी कूट भाषा में PRINT को RQGOS लिखा जाता है | इस कूट भाषा में DREAM को किस प्रकार लिखा जाएगा?
A. FQCBL
B. EIGBN
C. CPGBL
D. FTGCO

36. एक शब्द दिया गया है | इस शब्द के नीचे चार अन्य शब्द दिये गये हैं | इन चार में से एक शब्द ऐसा है जिसे दिये गये शब्द के अक्षरों का उपयोग कर नहीं बनाया जा सकता | उस शब्द को बताइये |
AUTOGBAPHS
A. ROUGH
B. GRAPH
C. PATHOS
D. GREAT

37. रवि तथा मोहन हॉकी और बॉलीबॉल में अच्छे हैं | सचिन तथा रवि क्रिकेट और बेसबॉल में अच्छे हैं | गौरव तथा मोहन हॉकी और बॉलीबॉल में अच्छे हैं | सचिन, गौरव तथा माइकेल फुटबॉल और बेसबॉल में अच्छे हैं |
इनमें से कौन-कौन हॉकी तथा बॉलीबॉल में अच्छे हैं?
A. रवि, मोहन तथा सचिन
B. रवि, मोहन तथा गौरव

C. मोहन, गौरव तथा माइकेल
D. गौरव, सचिन तथा मोहन

38. यदि 24 = 72 और 53 = 152 तो 36 का मान क्या होगा?
A. 243
B. 225
C. 326
D. 189

39. 6 सितंबर 1996 को सप्ताह का कौन-सा दिन था?
A. बुधवार
B. शुक्रवार
C. रविवार
D. मंगलवार

40.दि गयी आकृति में कितने त्रिभुज हैं?

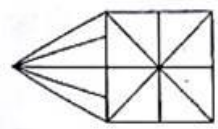

A. 16
B. 21
C. 26
D. 28

PART – II (3) TEACHING METHODOLOGY

1. जब अध्यापक कोई ऐसा कार्य देता है जो छात्रों के वर्तमान क्षमता स्तर से ऊपर का हो तो यह संभावना होती है कि :
A. उसे उसी विषय-वस्तु को कई बार दोहराना पड़ सकता है |
B. एक संप्रेषण अवरोध पैदा हो सकता है |
C. छात्रों में रुचि और प्रेरणा उत्पन्न हो सकित है |
D. शोर के प्रभाव को न्यूनतम हो सकता है |

2. विशेष आवश्यकता वाले बच्चों को पढ़ाने कि सबसे बेहतर कार्यनीति निम्नलिखित में से कौन सी है?
A. कक्षा में चर्चा करना जिसमें अधिकांश विधार्थियों शामिल किए गए हों |
B. अध्यापक द्वारा प्रदर्शन जिसमें विधार्थियों को शामिल किया गया हो |
C. सहकारी अधिगम और सहयोगी विधार्थियों द्वारा पढ़ाया जाना |
D. शिक्षण के लिए क्षमता समूह बनाना |

3. 'लोगों का प्रदर्शन का निर्दिष्ट स्तर उत्पन्न करने कि अपनी क्षमताओं पर विश्वास करना जो उनके जीवन को प्रभावित करने वाली घटनाओं पर प्रभाव डालते हैं' को किस पद द्वारा जाना जाता है?
A. स्व-संकलपना
B. स्व-आत्मसम्मान
C. स्व-योग्यता
D. स्व-क्षमता

4. अंतदुर्ष्टि को किस रूप में परिभाषित किया जा सकता है?
A. नैसर्गिक प्रवृत्ति से नजदीकी रूप से संबंधित एक प्रकार कि सहज बोध |
B. किसी समस्या के समाधान हेतु वैज्ञानिक प्रणाली को व्यवस्थित रूप से लागू करना |
C. अनुभव का अकस्मात पुनर्गठन |
D. रचनात्मकता में शामिल एक प्रकार कि उत्प्रेरणा |

5. एक देशी शिक्षण सहायक सामग्री कैसी नहीं होती है?
A. महंगी
B. दूर स्थानों से लाई गई सामग्री से निर्मित
C. स्थानीय तौर पर विकसित
D. प्रासंगिक

6. स्पीयरमैन का बुद्धिमता का सिद्धान्त थोर्नडाइक के बुद्धि के सिद्धान्त से संबंध ऐसा ही है जैसे :
A. गुणवत्ता का है मात्रा से
B. संस्कृति-मुक्त का है संस्कृति निष्पक्षता से
C. अन्तर्जात का है प्राप्य से
D. मौखिक का है निष्पादन से

7. पाठ्यक्रम बनाते समय निम्नलिखित में से क्या एक मानदंड नहीं है?
A. अभिभावकों का शैक्षणिक स्तर
B. पिछली परीक्षा में शिक्षार्थी का प्रदर्शन
C. शिक्षार्थी की क्षमताएँ
D. शिक्षार्थी की आकांक्षाएँ

8. "प्रभाव के नियम" का अर्थ है :

A. अनुक्रिया का सीखना या न सीखना उसके द्वारा प्रदात संतुष्टि पर निर्भर करता है |
B. सही अनुक्रिया के लिए बाहरी पुरस्कार दिया जाए |
C. अधिगम के लिए, शिक्षार्थी के पास प्रेरणा और स्पष्ट रूप से पहचाना गया लक्ष्य हो |
D. गलत अनुक्रिया के लिए बाह्य दंड दिया जाए |

9. सूचना और संचार प्रौघोगिकी (आई.सी.टी.) का भारतीय ग्रामीण विधालयों में अधिक उपयोग नहीं हो सका है क्योंकि :
A. ग्रामीण क्षेत्रों में अधिकांश समय बिजली नहीं होती है |
B. ग्रामीण जनसंख्या की आई.सी.टी. के प्रति अधिक सकारात्मक सोच नहीं होती है |
C. आई.सी.टी. काफी खर्चीली है |
D. आई.सी.टी. में जटिल शब्दावली का प्रयोग किया गया है |

10. विशेष शिक्षा के लिए प्रशिक्षण कोर्स को किसके द्वारा विनियमित किया जाता है?
A. राष्ट्रीय अध्यापक शिक्षा परिषद
B. राष्ट्रीय शैक्षिक अनुसंधान और प्रशिक्षण परिषद
C. सामाजिक रक्षा मंत्रालय
D. भारतीय पुनर्वास परिषद

11. बालकों को अनुशासित करने में बालकों को चाँटा मारने और पीटने को उपयुक्त नहीं माना जाता है | कठोर दंड के विकल्प के रूप में आप निम्नलिखित तकनीक में से किसकी सिफ़ारिश करोगे?
(i) कक्षा से बाहर करना
(ii) विशेषाधिकार वापस लेना
(iii) प्रतिरूपण (मॉडलिंग)
A. केवल (i)
B. केवल (ii)
C. (i) और (ii)
D. (i),(ii) और (iii)

12. नि:शक्त व्यक्ति अधिनियम, 1995 के अनुसार, नि:शक्त व्यक्ति वह है जो किसी नि:शक्तता से कम से कम _____ प्रतिशत से पीड़ित हो जिसे किसी चिकित्सा प्राधिकारी द्वारा अभिज्ञात किया गया हो |
A. 40 प्रतिशत
B. 30 प्रतिशत
C. 50 प्रतिशत
D. 60 प्रतिशत

13. समावेशन में सबसे बड़ी बाधा कौन-सी है?
A. सामाजिक अवरोध
B. संप्रेषण में समय कि बर्बादी
C. गलतफहमी
D. भौतिक अवरोध

14. प्रभावी संप्रेषण को प्रोत्साहित करने के लिए सर्वाधिक महत्वपूर्ण कौशल कौन-सा है?
A. जोखिम उठाना
B. तुरन्त जवाब देना
C. सक्रिय होकर सुनना
D. गैर-शाब्दिक संकेत

15. आई.ई.डी.सी. (नि:शकतों के लिए समेकित शिक्षा) सर्वप्रथम कब आरंभ कि गई थी?
A. 1960 के दशक में
B. 1970 के दशक में
C. 1980
D. 1990

16. यदि आपकी कक्षा में कोई छात्र अपने बाएँ हाथ का प्रयोग करता है तो आप एक अध्यापक के रूप में क्या करेंगे?
A. उसे बायां हाथ प्रयोग करने से हतोत्साहित करेंगे
B. उस पर ध्यान नहीं देंगे
C. चिकित्सीय सहायता लेंगे
D. उसे अपनी प्राथमिकता के अनुसार हाथ का प्रयोग करने कि अनुमति देंगे

17. दृष्टिबाधित बालक किसकी सहायता से अधिकाधिक सीख सकता है?
A. स्पर्शनीय आदानों से
B. गतिबोधक प्रणाली से
C. श्रवण प्रणाली से
D. अधिगम साधनों से

18. एक डिजिटल परिवेश में कंप्यूटरीकरण, दूर-संचार और मीडिया को मिलाने को क्या कहते हैं?

A. ऑनलाइन कम्यूनिकेशन
B. इंटीग्रेटेड मीडिया
C. चैट-रूम
D. अभिसारिता

19. करके सीखना और अपनी क्रिया के परिणामों का अनुभव कहलाता है?
A. सक्रिय अनुकूलन
B. प्रतिस्थ अधिगम
C. एनएक्टिव अधिगम
D. समस्या समाधान

20. पाठ्यपुस्तकों के पक्ष में मुख्य तर्क यह दिया जाता है कि :
A. पाठ्यपुस्तकें आसानी से उपलब्ध होती हैं |
B. पाठ्यपुस्तकें शिक्षार्थियों की रचनात्मकता का विकास करने में मदद करती हैं |
C. पाठ्यपुस्तकें यह सुनिश्चित करती हैं कि शिक्षार्थियों द्वारा कितनी न्यूनतम प्रामाणिक विषय वस्तु का अध्ययन किया जाता है |
D. पाठ्यपुस्तकों की लागत कम होती है |

21. पाठ्चर्या उपगमों में से किस उपागम में शिक्षार्थी को अधिकतम स्वतंत्रता मिलती है?
A. विषय केन्द्रित उपागम
B. अध्यापक केन्द्रित उपागम
C. क्रिया केन्द्रित उपागम
D. अनुभव केन्द्रित उपागम

22. सतत और व्यापक मूल्यांकन (सी.सी.ई.) का मुख्य उद्देश्य है :
A. अध्यापक को पाठ्यक्रम पूरा करने में सहायता देना |
B. विचार प्रक्रिया पर बल देना और स्मरण पर कम बल देना |
C. बालकों की प्रगति से माता-पिता को संतुष्ट करना |
D. प्राधिकारियों को विधालय के कार्यकरण की निगरानी करने में सहायता देना |

23. एक बाधित बालक नि:शक्तता का तब अनुभव करता है जब
A. उसे अधूरे काम के लिए डाँटा जाता है |
B. उसके किसी कार्य के निष्पादन को क्षा के अध्यापक द्वारा प्रशंसित नहीं किया जाता है |
C. वह ऐसे वातावरण में काम कर रहा है जो किसी काम में बालक के सफल प्रदर्शन पर प्रभाव डालता है |
D. उसकी लगातार उन बालकों से तुलना की जाती है जो कतिपय काम में अच्छा प्रदर्शन करते हैं |

24. कई वर्षों में एकत्र किए गए मात्रात्मक/गुणवतापरक आँकड़ो के आधार पर मूल्य निर्णयन अथवा महत्व आँकने की प्रक्रिया क्या कहलाती है?
A. परीक्षा
B. मापन
C. आकलन
D. मूल्यांकन

25. एक चयन परीक्षा में विभिन्न बोर्डों से पास हुए छात्र भाग ले रहे हैं | उनके उपलब्धि अंकों की व्याख्या करने की सर्वोतम तकनीक क्या है?
A. संबंधित बोर्डों का मध्यमान
B. T स्कोर
C. t परीक्षण
D. संबंधित बोर्डों का परास

26. स्व-क्षमता की कम समझ वाले छात्र अपने खराब प्रदर्शन का कारण किसे बताते हैं?
A. क्षमता की कमी
B. प्रयास की कमी
C. निर्देशों को गलत समझना
D. पढ़ने का प्रयास न करना

27. जब कोई छात्र किसी ज्यामितीय आकार को सही तरीके से वर्गीकृत करता है तो वह किसका निदेशन करता है?
A. घोषणात्मक ज्ञान
B. स्व-विनियामक ज्ञान
C. प्रक्रियात्मक ज्ञान
D. परिस्थितीय ज्ञान

28. शिक्षार्थियों के सामाजिक विकास में किस संसाधन का कार्यक्षेत्र अधिकतम है?
A. संग्रहालय
B. प्रयोगशालाएँ
C. समुदाय
D. पुस्तकालय

29. पाठ योजना के अनुसार पढ़ाते समय आमतौर पर अध्यापक किसे कम महत्व देते हैं?
A. पूर्ववर्ती ज्ञान की जाँच
B. प्रेरणात्मक प्रशन
C. प्रस्तुतिकरण
D. ब्लैकबोर्ड लेखन

30. किसी छात्र कि जरूरतों को समायोजित करने के लिए मूल्यांकन, सामग्री, पाठ्यक्रम या कक्षा के वातावरण को समंजित करना ताकि वह उसमें भाग ले सके और शिक्षण/अधिगम लक्ष्यों को प्राप्त कर सके, कहलाता है :
A. अनुकूलन
B. आत्मसात्करण
C. रूपान्तरण
D. वैयक्तिक शिक्षा कार्यक्रम

31. एक अध्यापक इस आशा से एक स्वीकार्य तरीके से व्यवहार करने का सचेतन प्रयास करता है कि उसके छात्र भी इसी तरह का व्यवहार करेंगे | निम्नलिखित में से कौन सा सिद्धान्त अध्यापक के व्यवहार को स्पष्ट करता है?
A. रूप देना (शेपिंग)
B. मॉडलिंग
C. संकेत देना (क्यूइंग)
D. पुनर्बलन

32. छात्रों में पारस्परिक क्रिया को बढ़ावा देने के लिए निम्नलिखित में से किसका उपयोग किया जाता है?
A. भाषा संबंधी खेल
B. नाटक
C. वाद-विवाद
D. संगीत

33. अधिकतम प्रभाविता के लिए यह आवश्यक है कि अनुक्रिया का पुर्नबलन :
A. अनुक्रिया के तुरन्त पश्चात होना चाहिए |
B. अनुक्रिया के पहले होना चाहिए न कि बाद में |
C. अधिकतम बलशाली होना चाहिए |
D. इसमें सही अनुक्रियाओं को पुरस्कारित व गलत अनुक्रियाओं को दंडित साथ-साथ किया जाना चाहिए |

34. शिक्षण की एक इकाई में होगा :
A. केवल एक अध्याय
B. केवल एक संकल्पना
C. अनेक अध्याय
D. केवल एक संकल्पना वाला एक अध्याय

35. पाठ्यचर्या प्रतिमान देने का श्रेय किसे जाता है?
A. ऑसबेल
B. हिल्डा ताबा
C. पियाजे
D. गिलफोर्ड

36. मोंस्लो (1970) के आवश्यकता सोपान में निम्नलिखित में से कौन सी आवश्यकता 'अस्तित्व हेतु आवश्यकता' है?
(i) सम्मान संबंधी आवश्यकता
(ii) ज्ञानात्मक आवश्यकता
(iii) सौंदर्यपरक आवश्यकता
(iv) प्रेम और आत्मीयता
कूट :
A. (i) और (iii)
B. (ii) और (iii)
C. (i) और (iv)
D. (i), (iii) और (iv)

37. शिक्षा क्षेत्र की सहायता के लिए पहला उपग्रह है :
A. EDUSAT
B. INSAT - B
C. TNSAT- C
D. SATEDU

38. अधिगम की रचनावादी दृष्टि से केंद्रीय विचार है/हैं :

(i) शिक्षार्थी अपने स्वयं का ज्ञान बनाने में सक्रिय रहते हैं |
(ii) छात्रों का पूर्व ज्ञान और विश्वास मुख्य आदान है |
(iii) अध्यापकों का सकलंपनात्मक ज्ञान गहरा होता है |
(iv) ज्ञान निर्माण में सामाजिक परस्पर-क्रियाएँ आवश्यक होती हैं |
A. (i) और (ii)
B. (i) और (iv)
C. (i), (ii) और (iii)
D. (i), (ii) और (iv)

39. निम्नलिखित में से कौन-सा विकासात्मक विकार नहीं है?
A. वाचन वैकल्य
B. स्वलीन वर्णक्रम विकार (आटिस्टिक स्पेक्ट्रम डिसआर्डर)
C. ए.डी.एच.डी.
D. प्रमस्तिष्क घाट

40. समग्र मूल्यांकन का प्रयोग आमतौर पर किसमें नहीं किया जाता है?
A. उपचारण में
B. ग्रेड प्रदान करने में
C. अगले ग्रेड में कक्षोन्नति में
D. वर्गीकरण में

Computer Literature

1. कम्प्युटर सिस्टम में सभी डाटा को _____ के रूप में निरूपित किया जाता है |
A. केवल दो अंकों - 0 और 1 के द्वारा
B. अंकों और वर्णों के द्वारा
C. अंकों, वर्णों और =, -, *, $ आदि चिन्हो के द्वारा
D. कि-बोर्ड पर दिखाई देने वाली सभी भाषाओं के अंकों और वर्णों के द्वारा

2. एम.एस. पावर पॉइंट के स्लाइड शो में कौन सा काम संभव है?
(a) किसी वेबसाइड को ब्राउज़ करना
(b) यू-ट्यूब विडियो चलाना
(c) कक्षा का परिणाम तैयार करना
A. केवल (a) और (b)
B. केवल (b) और (c)
C. केवल (a) और (c)
D. (a), (b) और (c)

3. वर्कशीट (एम. एस. एक्सेल) में संख्यात्मक डाटा प्रविष्टि पूर्वनिर्धारित रूप से कहाँ होती है?
A. सेंटर
B. लेफ्ट
C. राइट
D. टॉप

4. एनालॉग लाइनों पर डिजिटल डाटा ले जाने को क्या कहते हैं?
A. मुल्टीप्लेक्सर
B. मोड्यूलेटर
C. मोडेम
D. डि-मोड्यूलेटर

5. वी.जी.ए. से तात्पर्य है :
A. वोलाटाइल ग्राफिक्स ऐरे
B. विडियों ग्राफिक्स एडेप्टर
C. विडियो ग्राफिक्स ऐरे
D. विजुअल ग्राफिक्स ऐरे

6. एम. एस. एक्सेल का प्रयोग करके निम्नलिखित में से कौन से कार्य किए जा सकते हैं?
(a) विधार्थियों का परिणाम तैयार करना
(b) भारतीय शास्त्रीय गायकों का उनके घराने के साथ नाम स्टोर करना
(c) म्यूजिक विडियो चलाना
A. केवल (a) और (b)
B. केवल (b) और (c)
C. केवल (a) और (c)
D. (a), (b) और (c)

7. वे उपकरण जो कम्प्युटर में सूचना कि प्रविष्टि करते हैं और उसके साथ संवाद करते हैं, _____ कहलाते हैं |
A. आउटपुट
B. इनपुट
C. हार्डवेयर

D. स्टोरेज

8. निम्नलिखित में से कौन से विकल्प में एम एस ऑफिस फाइलों का एक्सटेंशन अंतर्निहित है?
A. xlsx, docx, pdfx
B. xlsx, docx, pptx
C. xis, doc, pdf
D. ppt, doc, pdf

9. एक प्रोग्राम से दूसरे प्रोग्राम या एक डिस्क से दूसरे डिस्क तक फैले एक व्यवधानकारी प्रोग्राम को कहते हैं :
A. टाइम बम
B. ट्रोजन होर्ज
C. वायरस
D. टाइम-रिलेटेड बम सीक्वेंस

10. कम्प्युटर स्क्रीन पर किसी आइटम को नए स्थान पर ले जाने के लिए माउस का प्रयोग करने कि क्रिया क्या कहलाती है?
A. कॉपी एंड पेस्ट
B. कट एंड पेस्ट
C. ड्रैग एंड ड्रॉप
D. प्लग एंड प्ले