SSC GD Constable Paper

4 October 2015 (Shift I)

POWERED BY:

gradeup

PART – A

सामान्य बुद्धिमत्ता

निर्देश (प्रश्न 1 से 4 तक) : दिए गए विकल्पों में से संबन्धित शब्द/अक्षर/संख्या को चुनिए

1. फ्रेंच : फ्रांस : : डच : ?

   A. फ़िजी B. नॉर्वे

   C. हॉलैंड D. स्वीडन

2. पुस्तक : पुस्तकालय : : वृक्ष : ?

   A. छाया B. फल

   C. वन D. फर्नीचर

3. DIMO : DMIO : : JUVR : ?

   A. JRVU B. JVRU

   C. JVUR D. JUVR

4. 4 : 19 : : 7 : ?

   A. 52 B. 68

   C. 49 D. 28

5. कौन सी उत्तर आकृति प्रश्न आकृति के प्रतिरूप को पूरा करेगी?

   प्रश्न-आकृति

   उत्तर-आकृतियाँ :

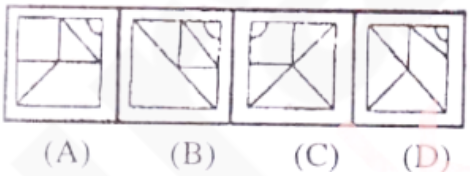

6. यदि STOVE का कोड EVOTS है और CANDLE का कोड ELDNAC है, तो REPORT का कोड क्या होगा?

   A. SFQUPSU B. QDONQS

   C. TROPER D. PORTRE

निर्देश - (प्रश्न 7 से 9 तक) : निम्नलिखित प्रश्नों में दिए गए विकल्पों में से विषम शब्द/अक्षर/संख्या युग्म चुनिए |

7. A. 22 B. 18

   C. 12 D. 15

8. A. UQ B. JG

   C. RN D. NJ

9. A. एस. एम. एस. B. स्पीड पोस्ट

   C. पत्र D. मनीऑर्डर

10. यदि ÷, × के लिए है ×, - के लिए है -, + जे लिए है और +, ÷ के लिए है, तो

    48 + 6 – 12 ÷ 2 + 10 = ?

    (बोडोमास के नियम के तहत नहीं बल्कि क्रम के अनुसार हल कीजिए)

    A. 9 B. 14

    C. 16 D. 4

11. वह उत्तर आकृति चुनिए जिसमें प्रश्न आकृति छुपी हुई है?

    प्रश्न-आकृति

    उत्तर-आकृतियाँ :

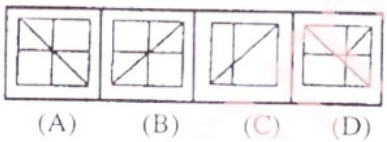

12. इस प्रशन में दिया गया कौन-सा विकल्प निम्नलिखित शब्दों का सार्थक क्रम होगा?

    1. बालक
    2. व्यवसाय
    3. विवाह
    4. शिशु
    5. शिक्षा

    A. 1, 3, 5, 2, 4 B. 5, 4, 1, 3, 2

    C. 2, 1, 4, 3, 5 D. 4, 1, 5, 2, 3

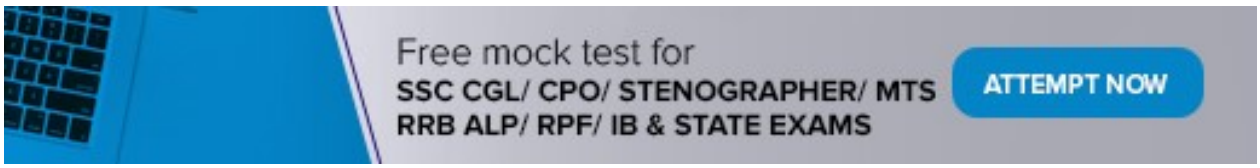

13. कौन सी उत्तर आकृति

प्रश्न-आकृति

उत्तर-आकृतियाँ :

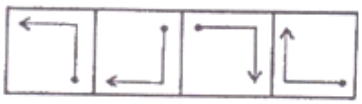

(A) (B) (C) (D)

14. एक पुष्प विक्रेता के पास 133 गुलाब थे | उसने उसमें से $\frac{5}{7}$ बेच दिए | उसके बाद कितने गुलाब शेष बचे?

A. 58 B. 38
C. 57 D. 19

15. कौन-सी उत्तर आकृति दूध, बकरी, गाय, मुर्गी के बीच सही संबंध दर्शाती है?

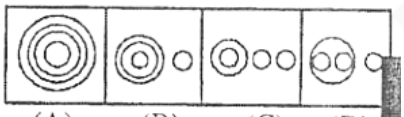

(A) (B) (C) (D)

16. एक शब्द केवल एक संख्या-समूह द्वारा दर्शाया गया है, जैसा कि विकल्पों में से किसी एक में दिया गया है | विकल्पों में दिए गए संख्या-समूह अक्षरों के दो वर्गों द्वारा दर्शाए गए हैं, जैसा कि नीचे दिए गए दो आव्यूहों में है | आव्यूह - I के स्तम्भ और पंक्ति की संख्या 0 से 4 में दी गई है और आव्यूह - II की 5 से 9 | इन आव्यूहों से एक अक्षर को पहले उसकी पंक्ति और बाद में स्तम्भ संख्या द्वारा दर्शाया जा सकता है | उदाहरण के लिए, 'D' को 00, 12 आदि द्वारा दर्शाया जा सकता है तथा 'P' को 56, 68 आदि द्वारा दर्शाया जा सकता है | इसी तरह से आपको नीचे दिए गए शब्द 'FIRE' के लिए समूह को पहचानना है |

आव्यूह-I

	0	1	2	3	4
0	D	E	F	I	N
1	I	N	D	E	F
2	E	F	I	N	D
3	N	D	E	F	I
4	F	I	N	D	E

आव्यूह-II

	5	6	7	8	9
5	O	P	R	S	T
6	S	T	O	P	R
7	P	R	S	T	O
8	T	O	P	R	S
9	R	S	T	O	P

A. 02, 03, 57, 01
B. 33, 34, 76, 22
C. 21, 22, 88, 33
D. 14, 10, 69, 14

निर्देश (प्रश्न 17 से 18 तक) : निम्नलिखित प्रत्येक प्रश्म ने एक श्रंखला दी गई है, जिसमें एक पद लुप्त है | दिए गए विकल्पों में से वह सही विकल्प चुनिए जो श्रृंखला को पूरा करे |

17. 0.15, 0.3, ?, 1.2, 2.4

A. 0.6 B. 0.9
C. 0.06 D. 4.8

18. BCD, DBC, EFG, ?, HIJ

A. IJH B. GEF
C. EGF D. FEG

19. नीचे प्रश्न आकृतियों में दिखाए अनुसार कागज को मोड़कर काटने तथा खोलने के बाद वह किस उत्तर आकृति जैसा दिखाई देगा?

प्रश्न-आकृति

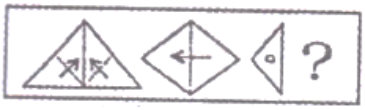

उत्तर-आकृतियाँ :

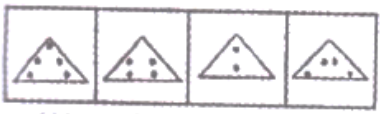

(A) (B) (C) (D)

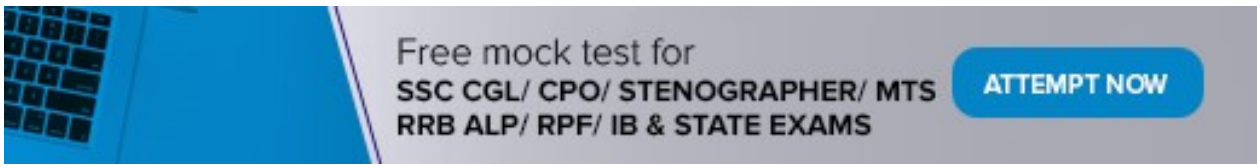

20. दिए गए वैकल्पिक शब्दों से, ऐसे शब्द का चयन कीजिए जो निम्नलिखित शब्द के अक्षरों का प्रयोग करके नहीं बनाया जा सके |

INTERDEPENDENT

A. DEPEND B. REPENT
C. RETREAT D. DEEPEN

21. नीचे दो कथन दिए गए हैं जिसके बाद दो निष्कर्ष/मान्यताएँ, I और II निकाले गये हैं | आपको विचार करना है कि कथन सत्य हैं चाहे वह सामान्यत: ज्ञात तथ्यों से भिन्न प्रतीत होता हो | आपको निर्णय करना है कि दिए गए कथन में से कौन-सा निश्चित रूप से सही निष्कर्ष/मान्यता निकाला जा सकता है | अपने उत्तर को निर्दिष्ट कीजिए |

कथन :

1. सभी बच्चे विधार्थी हैं |
2. सभी विधार्थी खिलाड़ी है |

निष्कर्ष

I. सभी क्रिकेट खिलाड़ी विधार्थी हैं |
II. सभी बच्चे खिलाड़ी हैं |

A. केवल निष्कर्ष I निकालता है
B. न निष्कर्ष I निकलता है और न निष्कर्ष II
C. निष्कर्ष I और II दोनों निकलते हैं
D. केवल निष्कर्ष II निकलता है

22. पाँच मित्र एक पंक्ति में, दक्षिण दिशा में मुँह करके बैठे हैं | उनमें मोहन बालू और राजू के बीच में हैं | और राजू, प्रवीण के ठीक दाईं और है | इसी तरह अमित, बालू के दाईं और है | तदनुसार, सबसे दाईं और कौन है?

A. प्रवीण B. अमित
C. बालू D. मोहन

23. यदि 2 = 0, 3 = 3, 4 = 6, 5 = 9 हो, तो 7 = ?

A. 18 B. 12
C. 15 D. 16

24. प्रवृति को देखते हुए लुप्त संख्या ज्ञात कीजिए |

5	4	3
6	7	8
4	2	?
34	30	30

A. 6 B. 3
C. 5 D. 10

25. प्रश्न आकृति का प्रयोग करके कौन-सी उत्तर आकृति बनाई जा सकती है?

प्रश्न-आकृति

उत्तर-आकृतियाँ :

(A) (B) (C) (D)

PART – B

सामान्य जानकारी

26. दादाभाई नौरोजी ने अपने 'धन का पलायन' सिद्धांत को किस पुस्तक में वर्णन किया है?

A. पवर्ती एंड अन-ब्रिटिश रूल इन इंडिया
B. ब्रिटिश रूल एंड इट्स कन्सीक्वेंसेज
C. एक्सप्लायटेटिव नेचर ऑफ ब्रिटिश रूल इन इंडिया
D. नेचल ऑफ ब्रिटिश कालोनियल रूल

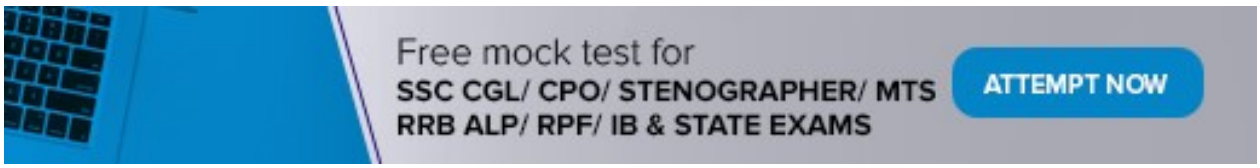

27. निम्नलिखित में से क्या अविम राशि है?
A. गैस रचना B. प्रभेद
C. श्यानता गुणांक D. फलक रचना

28. तेलुगु कृति 'अमुक्तमाल्यद' का लेखक था -
A. हरिहर B. देवराय
C. कृष्णदेवराय D. बुक्का

29. B.C.G. टीके में 'C' शब्द से अभिप्राय है -
A. कैल्मेट B. कफ
C. क्लोरीन D. कैडमियम

30. नकदी रिजर्व अनुपात किसका उपकरण है?
A. मौद्रिक नीति B. कर नीति
C. कृषि नीति D. राजकोषीय नीति

31. किस दिल्ली सुल्तान ने कठोर नीति अपनाई?
A. अलाउद्दीन खिलजी
B. गियासुद्दीन तुगलक
C. बलबन
D. इल्तुतमीश

32. पर्यावरण में प्रदूषकों की उपस्थिती को सामान्यत: पी पी एम में व्यक्त किया जाता है | यहाँ पी पी एम का पूर्ण रूप क्या है?
A. पार्टिकल्स पर मोल
B. प्योरिटी पर गाइक्रोग्राम
C. पाल्युटेंट प्रिवेंट मैजर्स
D. पार्ट्स पर मिलियन

33. गुरुजल का रासायनिक संघटन होता है -
A. H_2O_2 B. H_2O
C. HDO D. D_2O

34. विश्व व्यापार संगठन का मुख्यालय कहाँ है?
A. नई दिल्ली
B. जेनेवा, स्विट्जरलैंड
C. लंदन, यू. के.
D. वॉशिंगटन, यू. एस. ए.

35. निम्नलिखित में से क्या स्वत: पोषित है?
A. तितली B. शैवाल
C. टिड्डा D. मशरूम

36. इंटरनेट टेकनोंलॉजी में प्रयुक्त शब्द 'यू आर एल' का क्या अभिप्राय है?
A. यूनिफ़ोर्म रिसोर्स लोकेटर
B. यौनिक रिसोर्स लोकेटर
C. यूनिफ़ोर्म रोमोट लोकेटर
D. यूनिक रोमोट लोकेटर

37. अर्थशास्त्र मानव निर्मित उत्पादन उपकरण को किस रूप में वर्गीकृत करता है?
A. संगठन B. पूँजी
C. उपकरण D. श्रम

38. वातावरण में उपस्थित सल्फर-ऑक्साइड बारिश से धुल जाते हैं और क्या बनाते हैं?
A. फॉर्सिल ईंधन संग्रह का क्षारण
B. झीलों में यूट्रोफीकेश्न
C. मृदा में pH का निम्नस्तरीकरण
D. औधोगिक धूम निर्माण

39. जब पानी जम जाता है, तो उसका घनत्व -
A. घट जाता है
B. शून्य हो जाता है
C. नियत रहता है
D. बढ़ जाता है

40. कृषि से भारतीय औघोगिक विकास का बढ़ावा किस प्रकार मिलता है?
A. औघोगिक उत्पादों के लिए बाजार खोलकर
B. श्रमिकों को रोटी और कपड़ा उपलब्ध कराके
C. कच्चे माल की आपूर्ति करके
D. दिए गए विकल्पों में से सभी

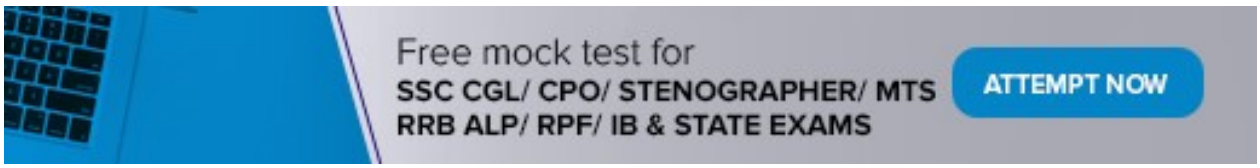

41. मदर टेरेसा जयंती मनाने के लिए उन पर टिकट निम्नलिखित में से किस देश ने प्राकाशित की है?
A. भारत B. अमेरिका
C. यू. के. D. पाकिस्तान

42. संयुक्त राष्ट्र संगठन का मुख्यालय कहाँ है?
A. रोम B. जेनेवा
C. वाशिंगटन D. न्यूयार्क

43. स्वतंत्र भारत के प्रथम राष्ट्रपति कौन थे?
A. डॉ. एस. राधाकृष्णन
B. जे. एल. नेहरू
C. सरदार पटेल
D. डॉ. राजेन्द्र प्रसाद

44. सोडियम बाईकार्बोनेट से कार्बन डाईऑक्साइड निकालने में विफल अम्ल (एसिड) कौन-सा होता है?
A. एसेटिक एसिड
B. फार्मिक एसिड
C. कार्बनिक एसिड
D. सल्फ्यूरिक एसिड

45. लोकतंत्र ऐसी सरकार है जिसमें प्रत्येक की हिस्सेदारी होती है, यह किसका मत था?
A. जियोवन्स B. सीले
C. प्लूटो D. अब्राहम लिंकन

46. शेरशाह की महानता किस्में निहित है?
A. धर्मनिरपेक्ष अभिवृति
B. हुमायूँ पर जीत
C. श्रेष्ठ जनरल होना
D. प्रशासनिक सुधार

47. उस प्रथम भारतीय का नाम बताइए जिसे ओलंपिक खेलों में एनाबोलिक स्टेरियड का प्रयोग करने के कारण प्रतिबंधित किया गया?
A. प्रतिमा कुमारी
B. अश्विनी अंकुजी
C. टी. समांचा चानू
D. सुमिता लाहा

48. जिला कलक्टर का पद कब बनाया गया?
A. 1786 ई. में B. 1772 ई. में
C. 1771 ई. में D. 1773 ई. में

49. औपनिवेशिक भारत में भारतीय विधवाओं के लिए 'शारदा सदन' स्कूल की स्थापना किसने की?
A. महादेव गोविंद रानाड़े
B. सरोजिनी नायडू
C. दयानंद सरस्वती
D. पंडिता रमाबाई

50. सबसे छोटा महासागर कौन-सा है?
A. अटलांटिक B. प्रशांत
C. हिंद D. आर्कटिक

PART – C

प्रारंभिक अंकगणित

51. A और B की औसत आय 200 रुपए है और C एवं D की औसत आय 250 रुपए है | A, B, C और D की औसत आय कितनी है?
A. 106.25 रु B. 125 रु.
C. 200 रु. D. 225 रु.

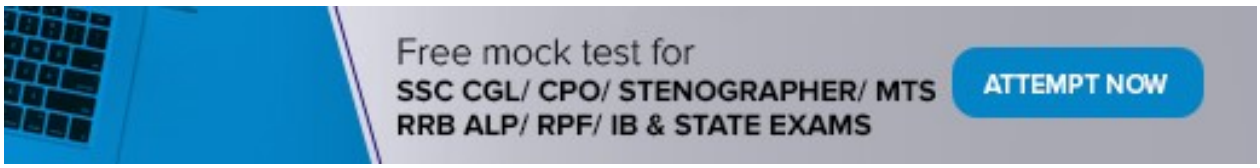

52. कोई राशि 15% प्रति वर्ष साधारण ब्याज की दर पर 1725 रुपए हो जाती है और 20% प्रति वर्ष साधारण ब्याज की दर पर उतने ही समय में 1800 रुपए हो जाती है |

A. 1650 रु. B. 1500 रु.

C. 1700 रु. D. 1200 रु.

निर्देश (प्रश्न 53 से 54 तक) : निम्न तालिका का अध्ययन करें एवं दिए गए प्रश्नों के उत्तर दीजिए |

एक कक्षा में छात्रों का बुद्धि लब्धि प्राप्तांक इस प्रकार है -

बुद्धि लब्धि प्राप्तांक	छात्रों की संख्या
80-90	6
90-100	9
100-110	16
110-120	13
120-130	4
130-140	2

53. 140 बुद्धि लब्धि अंक प्राप्त करने वाले छात्रों की संख्या कितनी है?

A. दिए गए आँकड़ों से ज्ञात नहीं होता

B. 2

C. 1

D. 0

54. 100 और अधिक बुद्धि लब्धि अंक प्राप्त करने वाले छात्रों की संख्या कितनी है?

A. 29 B. 35

C. 36 D. 46

55. दो व्यक्तियों की आयु का अनुपात 5 : 9 है और उनमें से एक की आयु दूसरे से 40 वर्ष अधिक है | उनकी आयु का योग कितने वर्ष होगा?

A. 180 B. 140

C. 150 D. 160

56. राजा किसी कार्य को 20 दिन में पूरा कर सकता है जबकि रमेश उसे 25 दिन में पूरा कर सकता है | रमेश के काम शुरू करने के 10 दिन बाद राजा ने काम शुरू किया | पूरा कार्य कितने दिन में पूरा होगा?

A. 18 दिन B. $16\frac{2}{3}$ दिन

C. 20 दिन D. 15 दिन

57. एक कॉलेज में हुए चुनावों में एक उम्मीदवार को 62% मत प्राप्त हुए एवं उसे 144 मतों के अंतर से चुना गया | डाले गए मतों की कुल संख्या कितनी थी?

A. 925 B. 600

C. 1200 D. 800

58. 1.21 और 0.09 का माध्य अनुपात क्या है?

A. 3.3 B. 0.33

C. 3.03 D. 0.033

59. एक छात्र अपने घर से $2\frac{1}{2}$ किमी. प्रति घंटा की गति से चलकर अपने स्कूल 6 मिनट देरी से पहुँचता है | अगले दिन वह उसी समय घर से चलता है और अपनी गति 1 किमी. प्रति घंटा बढ़ाने पर वह 6 मिनट पहले पहुँच जाता है | स्कूल और उसके घर के बीच कितनी दूरी है?

A. 4 किमी. B. $3\frac{1}{2}$ किमी.

C. $1\frac{3}{4}$ किमी. D. 6 किमी.

60. एक विक्रेता ने किसी वस्तु का लागत मूल्य 30% बढ़ा दिया और अंकित मूल्य 286 रुपए तय कर दिया | परंतु बिक्री के समय उसने खरीदार को 10% की छूट दी | लाभ का प्रतिशत कितना होगा?

A. 17% B. 15%

C. 10% D. 220%

61. लोहे से बने एक ठोस सम प्रिज्म में 5 सेमी., 10 सेमी. एवं 13 सेमी. भुजाओं वाले त्रिभुज की अनुप्रस्थ काट है एवं इसकी ऊँचाई 10 सेमी. है |

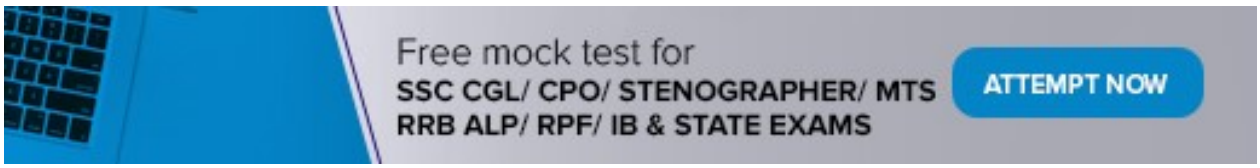

यदि लोहे के एक घन सेमी. का वजन 7 ग्राम है, तो प्रिज्म का वजन (लगभग) कितना होगा?

A. 1571.8 ग्राम B. 1371.32 ग्राम

C. 1470.8 ग्राम D. 1100.68 ग्राम

62. 800 रुपए की राशि साधारण ब्याज की एक निश्चित दर पर 3 वर्ष में 956 रुपए हो जाती है | यदि ब्याज दर 4% बढ़ा दी जाए, तो वह राशि 3 वर्ष में कितनी हो जाएगी?

A. 1025 रु. B. 1042 रु.

C. 1052 रु. D. 1024 रु.

63. एक बल्लेबाज 17 वीं पारी में 87 रन बनाता है और इस प्रकार उसका औसत 3 रन बढ़ जाता है | 17वीं पारी के बाद उसका औसत ज्ञात कीजिए |

A. 39 रन B. 87 रन

C. 90 रन D. 84 रन

64. किसी वस्तु को 25% की छूट पर 3600 रुपए में बेचा गया | उसका अंकित मूल्य क्या था?

A. 2880 रु. B. 2700 रु.

C. 4800 रु. D. 4500 रु.

65. एक फल विक्रेता को एक निश्चित मूल्य पर आम बेचने पर 25% का लाभ होता है | यदि वह प्रत्येक आम पर 1 रुपया अधिक वसूले तो उसे 50% का लाभ होगा | प्रारंभ में, आम की कीमत कितनी थी?

A. 5 रु. B. 7 रु.

C. 4 रु. D. 6 रु.

66. एक विक्रेता अपने माल पर अंकित मूल्य लागत मूल्य से 20% अधिक अंकित करता है और अपने ग्राहकों को 10% की छूट देता है | उसका लाभ प्रतिशत कितना है?

A. 6% B. 9%

C. 7% D. 8%

67. यदि किसी वस्तु की लागत 20% और 25% की दो आनुक्रमिक कटौती करने के बाद P रुपए आती है, तो वस्तु की मूल लागत क्या थी?

A. $\frac{5P}{3}$ रु. B. $\frac{4P}{5}$ रु.

C. $\frac{3P}{5}$ रु. D. $\frac{5P}{4}$ रु.

68. 16 आदमी दिन में 14 घंटे काम करके किसी कार्य को 12 दिन में पूरा कर सकते हैं | 28 आदमी दिन में 12 घंटे काम करके उस कार्य को कितने दिन में पूरा करेंगे?

A. 10 दिन B. 7 दिन

C. 8 दिन D. 6 दिन

69. एक विमान 6000 किमी. की दूरी 8 घंटे में तय कर सकता है | यदि उसकी गति 250 किमी. प्रति घंटा बढ़ा दी जाए, तो 9000 किमी. की दूरी तय करने में विमान को कितना समय लगेगा?

A. 8 घंटे B. 6 घंटे

C. 5 घंटे D. 9 घंटे

70. 1, 3, 5, 7, 9, 11, ... इन 25 संख्याओं का औसत कितना होगा?

A. 125 B. 25

C. 625 D. 50

71. 1008 को किस एक अंक वाली संख्या से विभाजित किया जाए कि भागफल एक पूर्ण वर्ग संख्या बन जाए?

A. 9 B. 4

C. 8 D. 7

72. $\sqrt{0.000441}$ का मान क्या है?

A. 0.21 B. 0.00021

C. 0.0021 D. 0.021

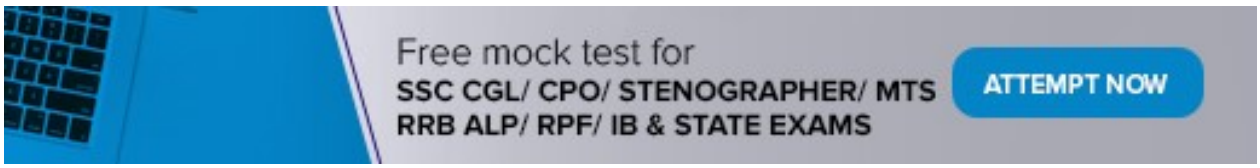

73. एक दुकानदार टीवी सेटों के पूरे स्टॉक को खत्म करने के लिए टीवी सेट पर 12% की छूट देता है | यदि टीवी सेट का अंकित मूल्य 6500 रुपए है, तो टीवी सेट का बिक्री मूल्य कितना है?

A. 5700 रु. B. 5720 रु.
C. 5400 रु. D. 6000 रु.

74. 20 सेमी. ऊँचे और 15 सेमी. आधार की त्रिज्या वाले एक समवृत्ताकार शंकु को गलाया जाता है और उसे 5 सेमी. ऊँचे तथा 1.5 सेमी. आधार की त्रिज्या वाले समान आकार के छोटे-छोटे शंकुओं में ढाला जाता है | ढाले हुए शंकुओं की संख्या कितनी होगी?

A. 300 B. 150
C. 400 D. 100

75. 243000 को किस लघुतम संख्या से विभाजित किया जाए कि भजनफल एक पूर्ण घन संख्या आए?

A. 3 B. 27
C. 9 D. 1

PART – D
सामान्य हिन्दी

निर्देश (प्रश्न 76 से 78 तक) : दिये गये वाक्यों में रिक्त स्थानों की उचित शब्दों द्वारा पूर्ति के लिए चार-चार विकल्प दिये गये हैं | उपयुक्त विकल्प चुनिये तथा उत्तर-पत्रिका में तदनुसार काला कीजिये |

76. हैजा एक _____ रोग है |

A. आक्रामक B. अभिक्रामक
C. संक्रामक D. अतिक्रामक

77. अथक परिश्रम और सतत _____ चरमसीमा प्राप्त कर सकता है |

A. मनमाने व्यवहार से
B. व्यवसाय
C. सभवाय
D. अव्यवसाय

78. भगवतकृपा से मूक भी _____ हो सकता है |

A. अभिज्ञ B. विज्ञ
C. बधिर D. वाचाल

निर्देश (प्रश्न 79 से 81 तक) : दिये गये चार वाक्यों में एक वाक्य शुद्ध है और तीन अशुद्ध हैं | शुद्ध वाक्य को चुनिये |

79. A. इतनी रात हुआ आप कहाँ से आ रहे हैं
B. इतनी रात बीते आप कहाँ से आ रहे हैं
C. इतना रात बीता आप कहाँ से आ रहे हैं
D. इतनी रात बीता आप कहाँ से आ रहे हैं

80. A. ड्राईवर मीरा को कार चलाना सीख रहा है
B. ड्राईवर मीरा के लिए कार चलाना सिखा रहा है
C. ड्राईवर मीरा के लिए कार चलाना सिखा रहा है
D. ड्राईवर मीरा को कार चलाना सिखा रहा है

81. A. हमें दिल्ली जाना है
B. हमें दिल्ली में जाना है
C. हमारे को दिल्ली जाना है
D. हमने दिल्ली जाना है

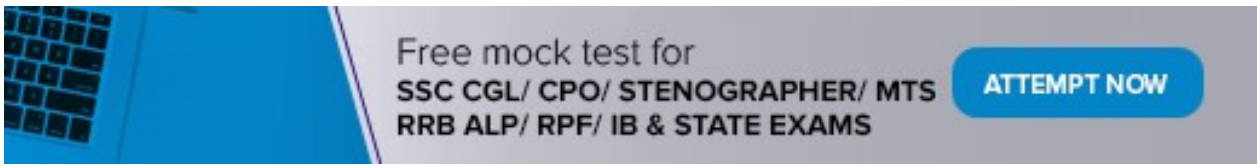

निर्देश (प्रश्न 82 से 84 तक) : दिये गये प्रत्येक वाक्यांश के लिए एक शब्द दीजिये | इसके लिए चार-चार विकल्प दिये गये हैं | उचित विकल्प का चुनाव कीजिये |

82. समुद्र में लगने वाली आग -
A. बदवाग्नि B. जठराग्नि
C. वनागिन D. दावाग्नि

83. मन को आनंदित करने वाला -
A. प्रिय B. मोहित
C. मनोरंजक D. श्रेयस

84. जिसको प्राप्त न किया जा सके -
A. दुर्लभ्य B. अलभ्य
C. दुष्प्राप्य D. दुष्कर

निर्देश (प्रश्न 85 से 87 तक) : दिये गये शब्दों का उपयुक्त विलोम बताने के लिए चार-चार विकल्प प्रस्तावित हैं | उचित विकल्प का चयन कीजिये और उत्तर-पुस्तिका में काला कीजिये |

85. यौवन
A. मृत्यु B. जरा
C. जीत D. पराजय

86. प्रतिवादी
A. आरोपी B. संवादी
C. वादी D. विपक्षी

87. यथार्थ
A. कल्पना B. विचार
C. उड़ान D. स्वप्न

निर्देश (प्रश्न 88 से 90 तक) : दिये गये शब्दों के पर्याय (समानार्थक शब्द) के लिए चार-चार विकल्प दिये गये हैं | उचित विकल्प चुनिये तथा उत्तर-पुस्तिका में तदनुसार काला कीजिये |

88. सुगंध
A. केसर B. सौरभ
C. चंदन D. इत्र

89. जंगल
A. कानन B. कुसुम
C. द्रुमदल D. बाग

90. बादल
A. अंबुधि B. अंबुज
C. पयोधि D. पयोद

निर्देश (प्रश्न 91 से 92 तक) : दिये गये मुहावरों और लोकोक्तियों के अर्थ बताने के लिए चार-चार विकल्प दिये गये है | प्रत्येक के लिए उपयुक्त अर्थ वाला विकल्प चुनिये |

91. न सावन सूखे न भादो हरे -
A. सदैव प्रसन्न रहना
B. सुख-दुःख का भेद न जानना
C. सदैव दुखी रहना
D. सदैव एक सी मानसिक स्थिति में रहना

92. पानी पी-पीकर कोसना -
A. हँसी उड़ाना
B. पानी पीकर अमंगल चाहना
C. हर घड़ी दूसरे का अमंगल चाहना
D. स्वार्थ की बात करना

निर्देश (प्रश्न 93 से 97 तक) : दिए गए अनुच्छेद में रिक्त स्थानों की उचित शब्दों द्वारा पूर्ति के लिए चार-चार विकल्प दिए गए हैं | उपयुक्त विकल्प को चुनिए |

अनुच्छेद

कुछ लोग ज्ञान प्राप्ति को ही शिक्षा का एक मात्र ...(93)... मानते हैं | ऐसे लोग चाहते हैं कि विधार्थी पुस्तकें ही पढ़ें, अन्य कुछ न करें, तभी उनके ज्ञान में

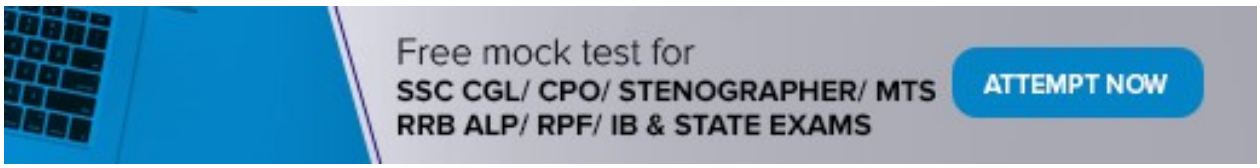

...(94)... होगी | दूसरे लोग विश्वास करते हैं कि अकेले शिक्षा के द्वारा ही मनुष्य ...(95)... कमाने के योग्य नहीं हो सकता | ऐसे लोग सोचते हैं कि रोटी अधिक ...(96)... है ; जबकि दूसरे लोग विश्वास करते हैं कि शिक्षा का उद्देश्य अच्छे ...(97)... और देशभक्त पैदा करना है |

93. A. औज़ार B. सहारा
C. माध्यम D. उद्देश्य

94. A. प्राप्ति B. पूर्ति
C. अभिवृद्धि D. उपलब्धि

95. A. यश B. नौकरी
C. समृद्धि D. जीविका

96. A. उपयोगी B. महत्वपूर्ण
C. अनिवार्य D. प्रकार्य

97. A. लोभ B. नागरिक
C. नौकर D. आदमी

निर्देश (प्रश्न 98 से 100 तक) : दिए गए वाक्यों में से कुछ में त्रुटियों हैं और कुछ ठीक हैं वाक्य के जिस भाग में त्रुटियाँ हों, उसके अनुरूप अक्षर वाले गोलाकार खाने को काला करें |

98. बुरा से बुरा
A. बुरा से बुरा व्यकित भी
B. सम्मान और प्रशंसा
C. पाना चाहता है
D. कोई त्रुटि नहीं

99. खुले हुए भोजन पर मकखियाँ हर क्षण भिनभिनाती हुई रहती हैं |
A. भिनभिनाती हुई रहती हैं
B. मक्खियाँ हर क्षण
C. खुले हुए भोजन पर
D. कोई त्रुटि नहीं

100. शीर्षक को चयन करते समय अवतरण में निहित भावों और विचारों की परख कर लेनी चाहिए |
A. शीर्षक को चयन करते समय
B. कोई त्रुटि नहीं
C. अवतरण में निहित
D. भावों और विचारों की परख कर लेनी चाहिए

अथवा,

GENERAL ENGLISH

Directions (Q. 76 to 79) : In the following questions, sentences are given with blanks to be filled in with an appropriate word(s). Four alternatives are suggested for each question. Choose the correct alternative out of the four as your answer.

76. Your _____ nature will aid you in attaining success in every venture you undertake.
A. rotund B. persevering
C. lackadaisical D. catalytic

77. This is our house and that is _____
A. theirs B. their
C. them D. their's

78. The publisher is bringing _____ a revised edition of this book.
A. round B. out
C. about D. up

79. She had to _____ illness in order to avoid going to the part meeting.
A. feint B. feign
C. faint D. fain

Directions : (Q. 80 to 82) : In each of the following questions, four alternatives are given for the Idiom/Phrase primed in bold in the sentence. Choose the alternative which best expresses the meaning of the Idiom/Phrase as your answer.

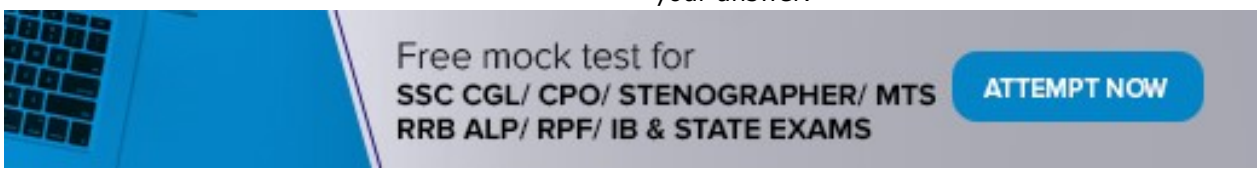

80. I have taken fancy to his car
    A. given imaginative touches
    B. revised
    C. developed liking for
    D. improved
81. Carry out
    A. Bring
    B. Continue
    C. Complete something
    D. To take in
82. He beats about the bush.
    A. talks sensibly
    B. talks continuously
    C. speak well
    D. does not talk specifically

Directions (Q. 83 to 85): In the following questions, a part of the sentence is bold. Below are given alternatives to the bold part which may improve the sentence. Choose correct alternative.

83. Covering thirty kilometres in thirty minutes are not a great distance using a brand new car.
    A. aren't is great distance
    B. is no distance
    C. No improvement
    D. is not a great distance
84. Years ago, I met a man which was President and Chairman of the board of a company.
    A. whom B. No improvement
    C. who D. who
85. Where are you coming from?
    A. No improvement
    B. do you come from
    C. were you from
    D. you are coming from

Directions (Q. 86 to 88) : In the following questions, choose the word opposite in meaning to the given word.

86. Harmonious
    A. Sonorous B. Discordant
    C. Concordant D. Balanced
87. Fragile
    A. Weak B. Brittle
    C. Strong D. Discard
88. Superficial
    A. Genuine B. Natural
    C. Artificial D. Amicable

Directions (Q 89 to 91): In the following questions, four words are given in each question, out of which only one word is correctly spelt. Find the correctly spelt word as your answer.

89. A. Juvinnile B. Juvenille
    C. Juvenile D. Juvinile
90. A. Knowledgeable
    B. I
    C. Knowledgable
    D. Knowledgeble
91. A. Deterriorate B. Deteriorrate
    C. Deteriorate D. Detariorate

Directions (Q. 92 to 94): In the following questions, out of the four alternatives, choose the one which best expresses the meaning of the given word.

92. Felicitated
    A. Admired B. Adored
    C. Encouraged D. Congratulated
93. Honour
    A. Determination
    B. Courage
    C. Respect
    D. Discipline
94. Rectify
    A. Clarify B. Condone
    C. Correct D. Regularise

Directions (Q. 95 to 97): In the following questions, some parts of the sentences have errors and some are correct. Find out which part of a sentence has an error. The number of that part is the answer.

95. The kitchen need painting badly and I must get it done.
    A. need painting badly
    B. The kitchen
    C. No error
    D. and I must get it done

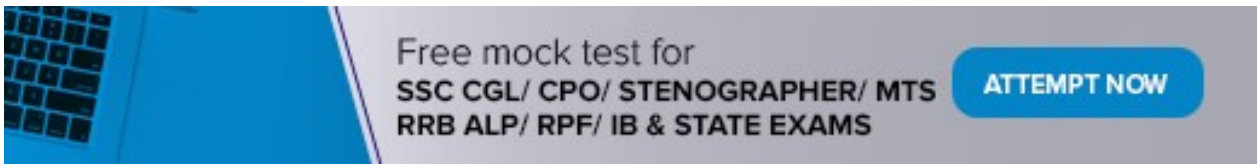

96. If I will play my best I can win any day against anybody.
    A. against anybody
    B. I can win any day
    C. No error
    D. If I will play my best
97. He finds fault at everything I do.
    A. No error
    B. at everything
    C. I do
    D. He finds fault

Directions (Q. 98 to 100) : In the following questions, out of the four alternatives, choose the one which can be substituted for the given words/sentences.

98. Put side by side –
    A. Juxtapose B. Impose
    C. Propose D. Depose
99. One who can not be corrected –
    A. Ineligible B. Indolent
    C. Indefatigable D. Incorrigible
100. Chief or Commander of army –
    A. Lieutenant B. Major
    C. General D. Colonel

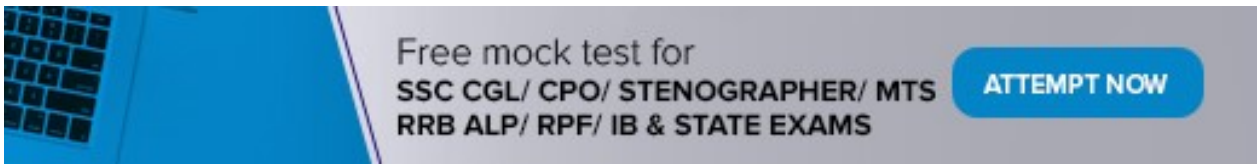

TestSeries

SSC CGL/CPO/ & RRB GRP. D /ALP/ TECHNICIAN &RPF SI/CONST. & STATE EXAMS 2018

- Based on latest exam pattern
- Available in Hindi & English
- All India Rank & Performance analysis
- Based on latest pattern
- Detailed explanation of Solutions
- Available on Desktop & Mobile

GET IT ON Google Play

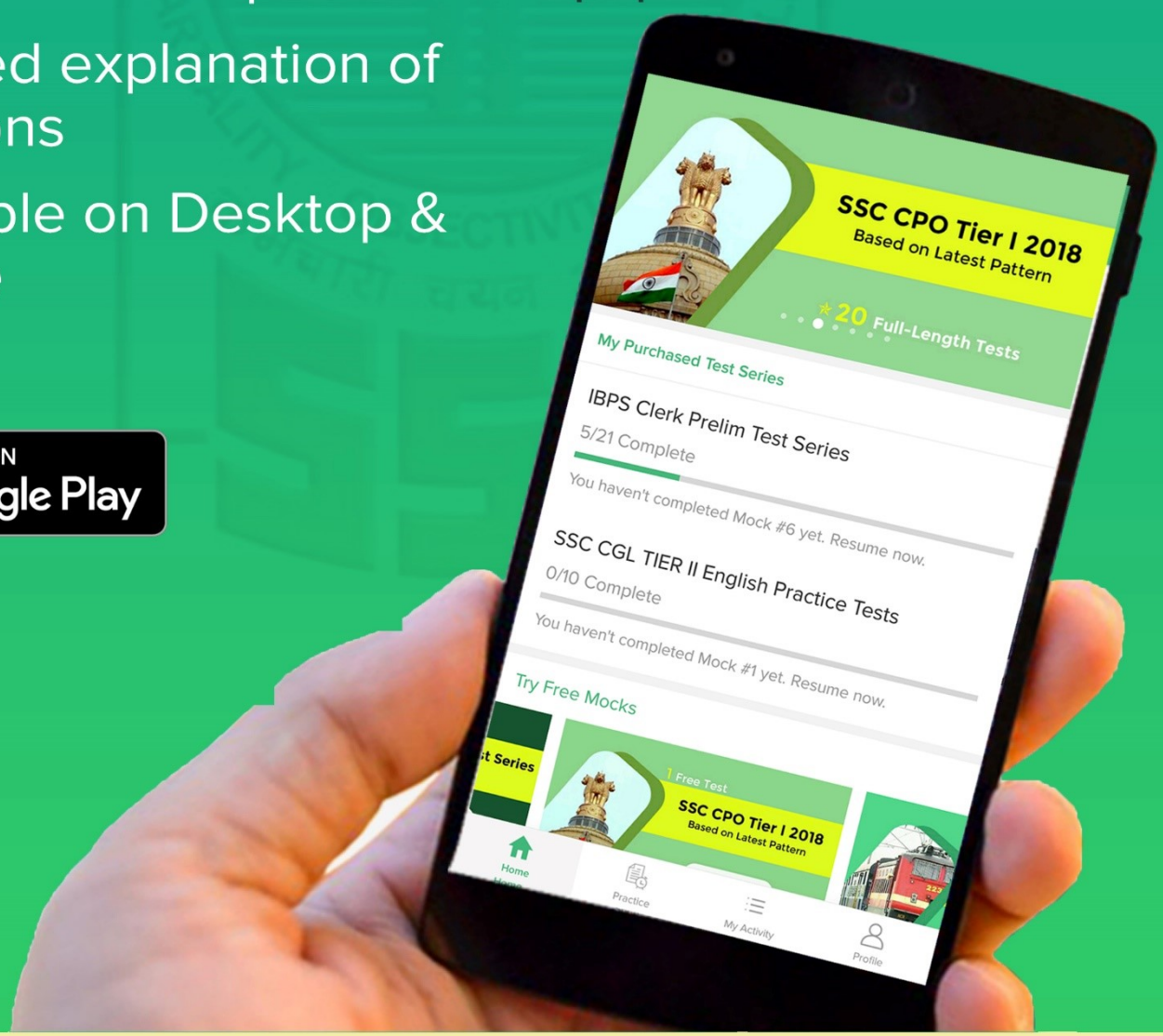

www.gradeup.co